TITRE :

Exercice : Pour se familiariser avec le passage du levier à la balance, tu vas effectuer quelques manipulations avec les maquettes mises à dispositions.

Travail : Place les noms des parties d'une balance sur le schéma ci-dessous.

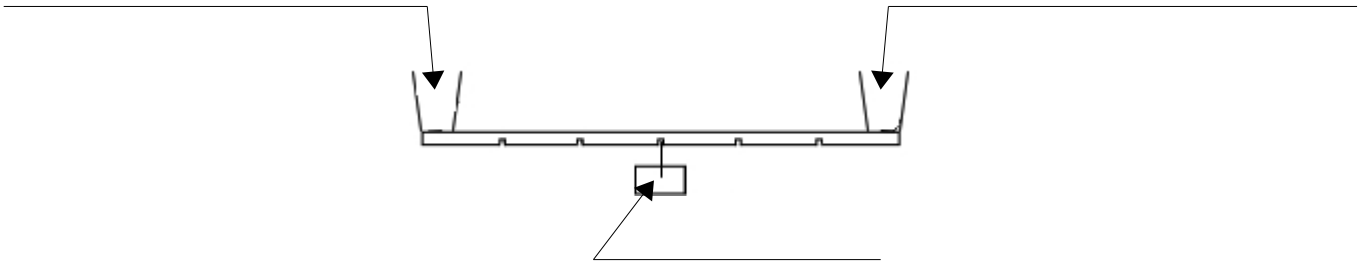

Schéma à annoter de la maquette utilisée.

Travail n° 2 : Coche au stylo vert les cases « possible » ou « impossible » sous les situations proposées.
Effectue ensuite les manipulations correspondant aux schémas des situations et corrige au stylo rouge ce qui doit l'être selon ce que tu as observé.

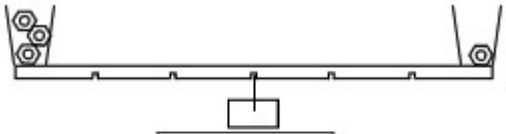

Situation 1

possible ☐ impossible ☐

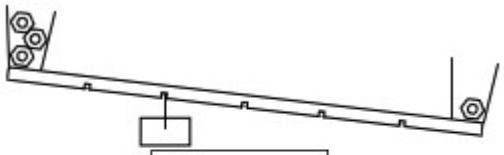

Situation 2

possible ☐ impossible ☐

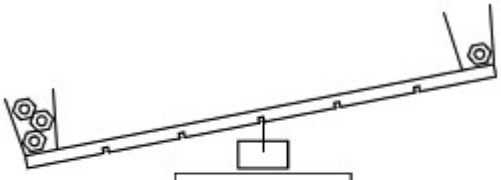

Situation 3

possible ☐ impossible ☐

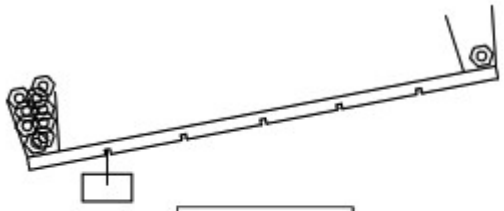

Situation 4

possible ☐ impossible ☐

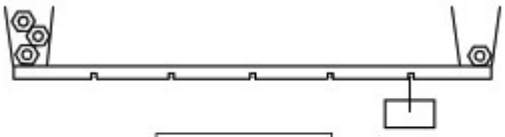

Situation 5

possible ☐ impossible ☐

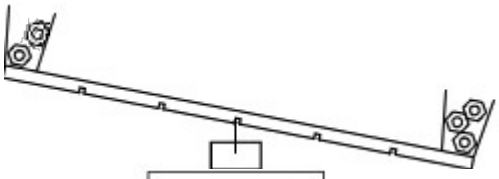

Situation 6

possible ☐ impossible ☐

Remarque :